# Mesures d'aires et de périmètres

**Calcule le périmètre et l'aire de chacune des figures suivantes :**

*Attention, les mesures indiquées ne sont pas réelles !*

1)

Calculs : .....

**Périmètre :** ..... **cm**

Calculs : .....

**Aire :** ..... **cm².**

2)

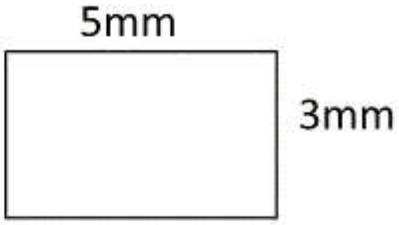


Calculs : .....

**Périmètre :** ..... mm

Calculs : .....

**Aire :** ..... mm ².

3)

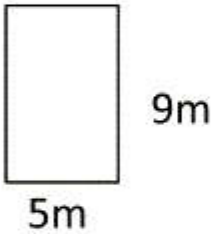


Calculs : .....

**Périmètre :** ..... **m**

Calculs : .....

**Aire :** ..... **m².**

4)

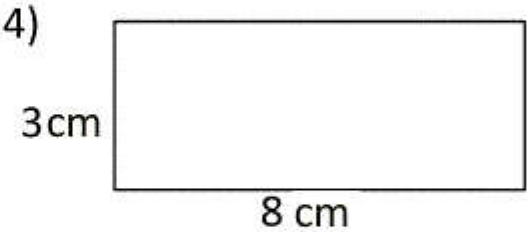


Calculs : .....

**Périmètre :** ..... **cm**

Calculs : .....

**Aire :** ..... **cm².**

5)

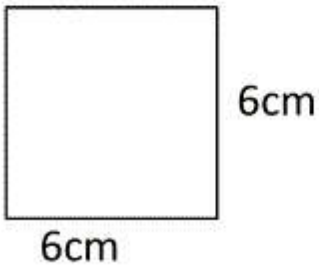


Calculs : .....

**Périmètre :** ..... **cm**

Calculs : .....

**Aire :** ..... **cm².**

6)

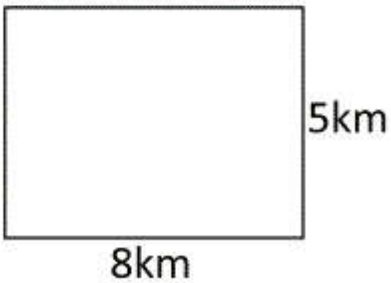


Calculs : .....

**Périmètre :** ..... km

Calculs : .....

**Aire :** .....km ².