Exercice 14 : place sur la droite graduée ci-dessous les cinq nombres suivants :

1	19	7,5	3,4	15,9

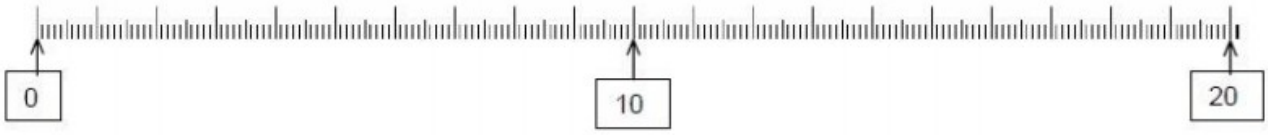

Exercice 15 : Place sur la droite graduée ci-dessus les cinq nombres suivants et indique exactement la graduation correspondante avec une flèche : 2,6 – 1 – 6,2 – 8,9 – 0,5


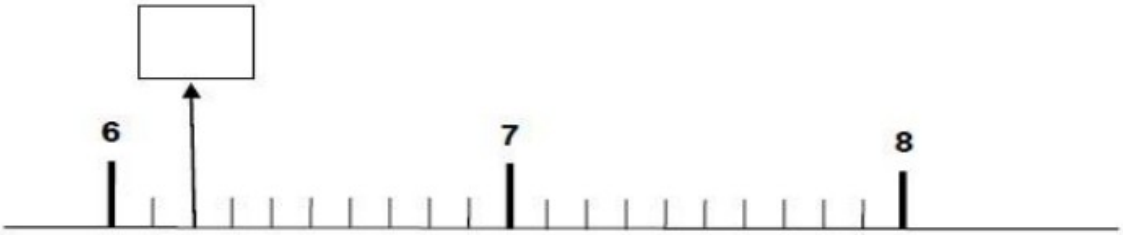
Exercice 16 : dans la case, écris le nombre qui correspond à la graduation donnée.